Fiche d'activités n°2 : La frise chronologique

Comprendre une frise chronologique

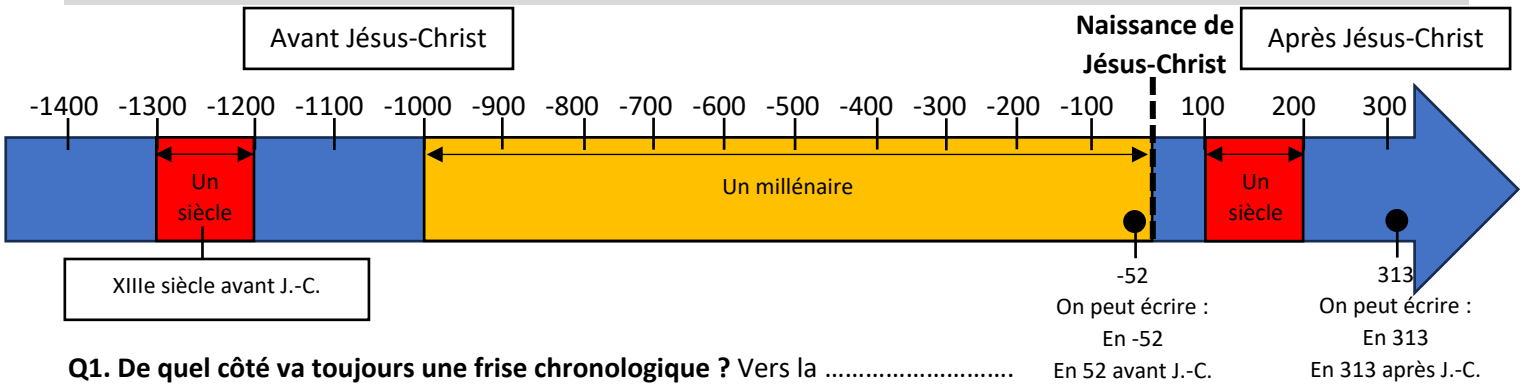

Q1. De quel côté va toujours une frise chronologique ? Vers la .....

Q2. Sur une frise chronologique, une date à gauche est toujours plus [ancienne OU récente] **que celle de droite. Entourez la bonne réponse parmi les deux proposées**

Q3. Quelle est la date la plus récente (proche de nous) sur cette frise ? Entourez la bonne réponse.

-600 -200 200 300 -500 313 -1400 700

Q4. Quelle est la date la plus ancienne (loin de nous) sur cette frise ? Entourez la bonne réponse.

-600 -200 200 300 -500 313 -1400 700

Q5. Quel évènement historique marque sur cette frise le début de notre calendrier ? .....

Q6. Un millénaire : ..... ans **. Une décennie :** ..... ans **. Un siècle :** ..... ans **. Un millénaire :** ..... siècles

Q7. Classez les dates suivantes dans l'ordre chronologique (de la plus ancienne à la plus récente) :

1945, 27 av JC, 476, 3000 av JC, 323 av JC, 1715, 336 av JC, 800, 324 av JC, 1714.

.....<.....<.....<.....<.....

.....<.....<.....<.....<.....

Connaître les grandes périodes de l'Histoire

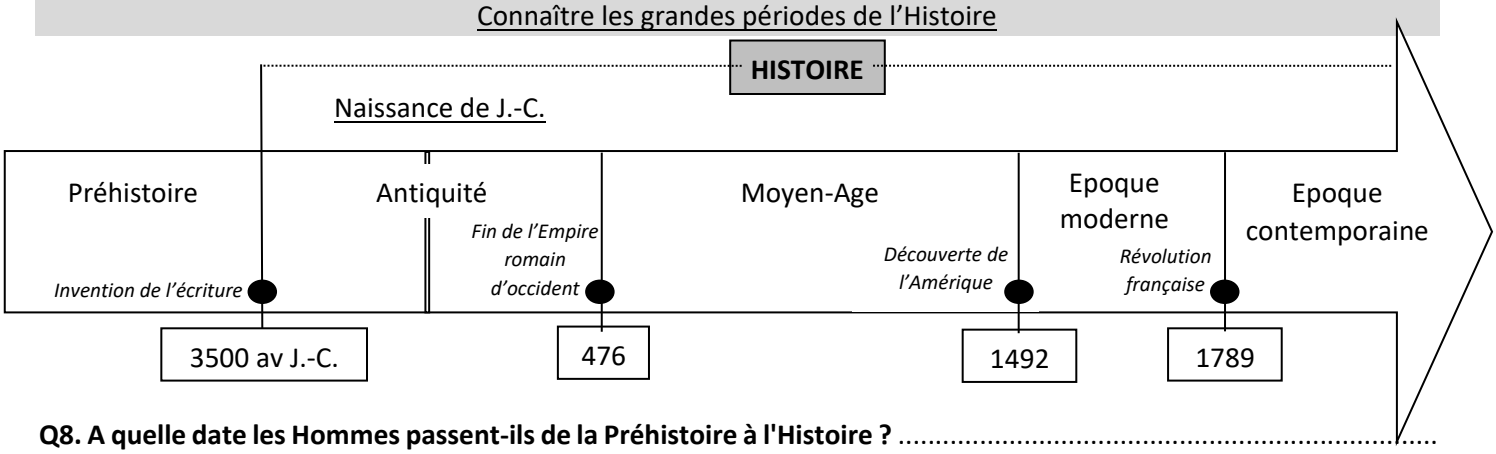

Q8. A quelle date les Hommes passent-ils de la Préhistoire à l'Histoire ? .....

Q9. Quelle est la première période de l'Histoire ? En quelle année finit-elle ? .....

.....

Q10. Quelle est la deuxième période de l'Histoire ? Quel évènement marque sa fin ? .....

.....

Q11. Quelle est la troisième période de l'Histoire ? Donnez les dates de cette période. .....

.....

Q12. Dans quelle période de l'Histoire vivons-nous actuellement ? .....

Q13. Coloriez en bleu la Préhistoire, en orange l'Antiquité, en vert le Moyen Age, en jaune l'époque moderne et en rouge l'époque contemporaine. Attention à bien respecter les couleurs données et à utiliser les crayons de couleur.

Q14. Coloriez les cases ci-dessous en reprenant les couleurs données pour la Préhistoire et les 4 périodes de l'Histoire